Nombre del Docente	Grado y grupo	Materia	Fecha	Tema	Actividades del alumno: Resuelve los siguientes ejercicios con ayuda de las clases virtuales del profesor durante las semanas.	Recursos para el alumno

Semanas Fecha de entrega de actividades	***Actividades a realizar***	***Producto a generar el alumno***	***Instrumento de evaluación***
1. 20 al 24 de abril	**ACTIVIDADES DE DOULINGO**	**- Web App**	**- Lista de cotejo** **- Hoja de Excel**
2. 24 al 30 de abril	**<u>MODULE 5. Amazing stories página #63</u>** 1. **5A:** Investigarán el tema del pasado progresivo y me escribirán en el cuaderno ¿qué es? Y 10 ejemplos. En esta liga encontrarás explicación sobre el tema https://www.youtube.com/watch?v=hawdlk07BPc 2. **5A**: Realizarán la página #64 la parte del "vocabulary" y el texto "POLICE REPOT" lo escribirán en su cuaderno 📓 además de traducirlo al español. 3. **5A y 5B:** realizaras los cuadritos azules de gramática de la página #65 y el de la pagina #67	- Libro de texto - Cuaderno	- Lista de cotejo
3. 01 al 08 de mayo	**ACTIVIDADES DE DOULINGO**	**- Web App**	**- Lista de cotejo** **- Hoja de Excel**
4. 08 al 15 de mayo	1. **5C:** En la página #68 escribirán un texto (cualquiera de los dos) en su cuaderno y posteriormente lo pasarán a una cartulina mandando un audio de su lectura en voz alta. 2. Subrayaran las oraciones en su texto que estén en pasado progresivo.	- Cartulina - Libro de texto	- Rubrica de elaboración de carteles.

José de Jesús Guerrero Jiménez	2 D	Geometría y trigonometría	20 – 24 abril	Áreas de polígonos Habilidad matemática Área de un círculo Área y Perímetro de figuras regulares Cálculo de volumen de objetos conocidos Congruencia Teorema de Thales Cálculo de ángulos usando teoremas matemáticos	1.- Se tienen dos cuadrados, el primero con un tercio de longitud por lado que el segundo, ¿Cuántas veces cabe el área del cuadrado pequeño en la del cuadrado grande? 2.-¿Cuál es el área de un círculo con diámetro de 35.4cm? 3.- ¿Qué tiene más área: dos círculos con diámetro de 100 cm o un círculo con diámetro de 200cm? 4.- Un pentágono regular tiene un apotema de 6cm y una longitud de lado de 15cm. Calcula su área y su perímetro 5.- Calcula el volumen de un cilindro que tiene 0.8m de radio y una altura de 4m	

					6.- Pendiente 7.- Si un hombre de 1.70 m proyecta una sombra de 1.3m, ¿qué altura tendrá un árbol que proyecta una sombra de 3m. 8.- De las siguientes opciones, elige la que no representa un criterio de congruencia para triángulos • Los tres lados iguales • Dos lados y el ángulo comprendido entre ellos • Dos ángulos y el lado comprendido entre ellos • Los tres ángulos iguales 9.- Encuentra el valor del ángulo x y el ángulo a	

					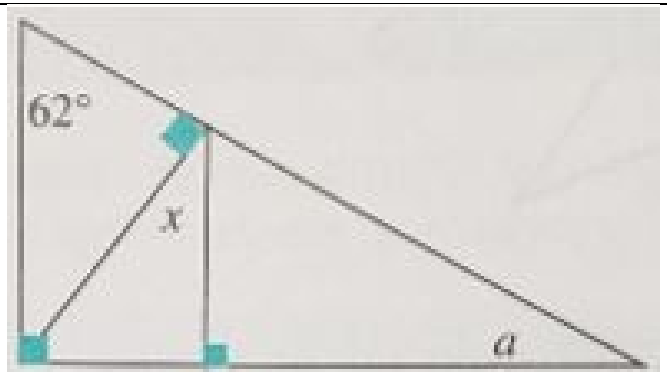 10.- ¿Cuál es el valor del ángulo x	

					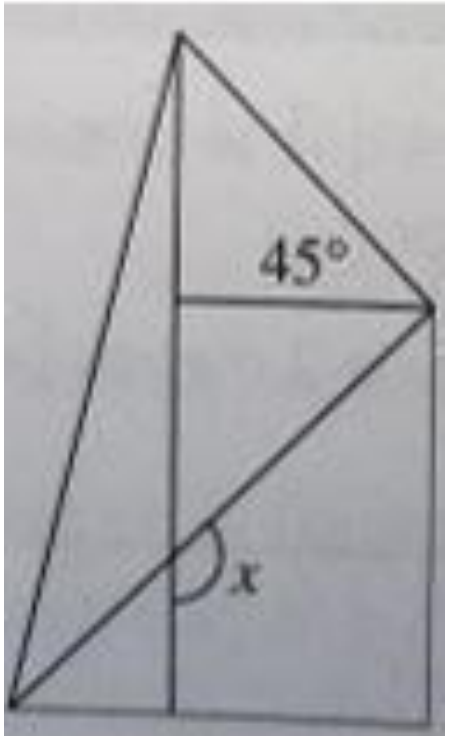	
			27 abril – 01 de mayo	Áreas de polígonos Habilidad matemática Área de un círculo	1.- Se tienen dos cuadrados, el primero con un tercio de longitud por lado que el segundo, ¿Cuántas veces cabe el área del cuadrado	

				Área y Perímetro de figuras regulares Cálculo de volumen de objetos conocidos Congruencia Teorema de Thales Cálculo de ángulos usando teoremas matemáticos	pequeño en la del cuadrado grande? 2.-¿Cuál es el área de un círculo con diámetro de 35.4cm? 3.- ¿Qué tiene más área: dos círculos con diámetro de 100 cm o un círculo con diámetro de 200cm? 4.- Un pentágono regular tiene un apotema de 6cm y una longitud de lado de 15cm. Calcula su área y su perímetro 5.- Calcula el volumen de un cilindro que tiene 0.8m de radio y una altura de 4m 6.- Pendiente 7.- Si un hombre de 1.70 m proyecta una sombra de 1.3m,	

					¿qué altura tendrá un árbol que proyecta una sombra de 3m. 8.- De las siguientes opciones, elige la que no representa un criterio de congruencia para triángulos • Los tres lados iguales • Dos lados y el ángulo comprendido entre ellos • Dos ángulos y el lado comprendido entre ellos • Los tres ángulos iguales 9.- Encuentra el valor del ángulo x y el ángulo a	

					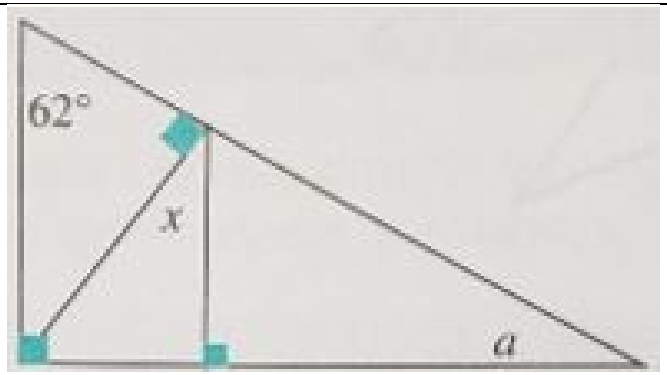 10.- ¿Cuál es el valor del ángulo x	

					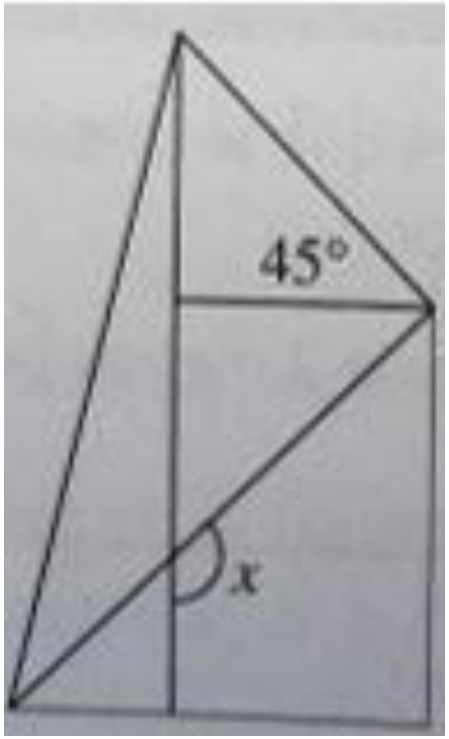	
			04 – 08 mayo		1.- Se tienen dos cuadrados, el primero con un tercio de longitud por lado que el segundo, ¿Cuántas veces cabe el área del cuadrado pequeño en la del cuadrado grande?	

					2.-¿Cuál es el área de un círculo con diámetro de 35.4cm? 3.- ¿Qué tiene más área: dos círculos con diámetro de 100 cm o un círculo con diámetro de 200cm? 4.- Un pentágono regular tiene un apotema de 6cm y una longitud de lado de 15cm. Calcula su área y su perímetro 5.- Calcula el volumen de un cilindro que tiene 0.8m de radio y una altura de 4m 6.- Pendiente 7.- Si un hombre de 1.70 m proyecta una sombra de 1.3m, ¿qué altura tendrá un árbol que proyecta una sombra de 3m.	

					8.- De las siguientes opciones, elige la que no representa un criterio de congruencia para triángulos • Los tres lados iguales • Dos lados y el ángulo comprendido entre ellos • Dos ángulos y el lado comprendido entre ellos • Los tres ángulos iguales 9.- Encuentra el valor del ángulo x y el ángulo a 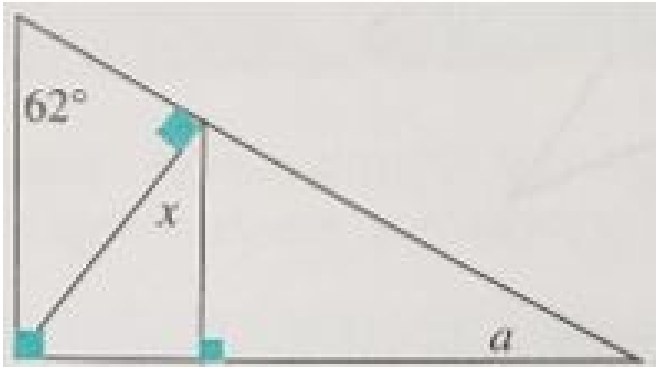 	

					10.- ¿Cuál es el valor del ángulo x 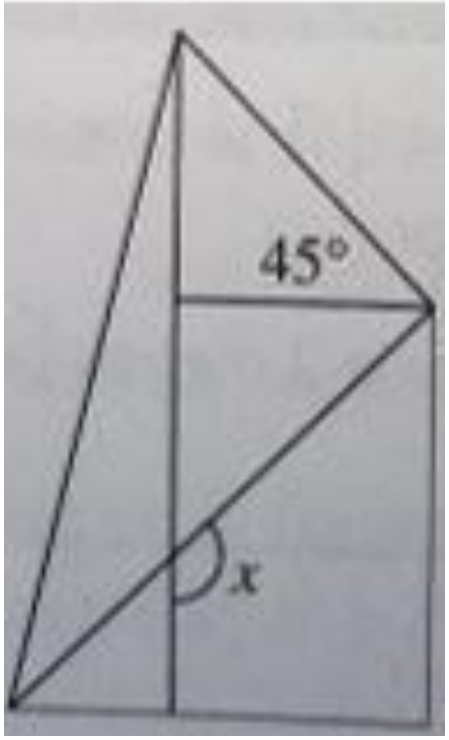	
José de Jesús Guerrero Jiménez	2 E		20 – 24 abril	Áreas de polígonos Habilidad matemática Área de un círculo	1.- Se tienen dos cuadrados, el primero con un tercio de longitud por lado que el segundo, ¿Cuántas veces cabe el área del cuadrado	

				Área y Perímetro de figuras regulares Cálculo de volumen de objetos conocidos Congruencia Teorema de Thales Cálculo de ángulos usando teoremas matemáticos	pequeño en la del cuadrado grande? 2.-¿Cuál es el área de un círculo con diámetro de 35.4cm? 3.- ¿Qué tiene más área: dos círculos con diámetro de 100 cm o un círculo con diámetro de 200cm? 4.- Un pentágono regular tiene un apotema de 6cm y una longitud de lado de 15cm. Calcula su área y su perímetro 5.- Calcula el volumen de un cilindro que tiene 0.8m de radio y una altura de 4m 6.- Pendiente 7.- Si un hombre de 1.70 m proyecta una sombra de 1.3m,	

					¿qué altura tendrá un árbol que proyecta una sombra de 3m. 8.- De las siguientes opciones, elige la que no representa un criterio de congruencia para triángulos • Los tres lados iguales • Dos lados y el ángulo comprendido entre ellos • Dos ángulos y el lado comprendido entre ellos • Los tres ángulos iguales 9.- Encuentra el valor del ángulo x y el ángulo a	

					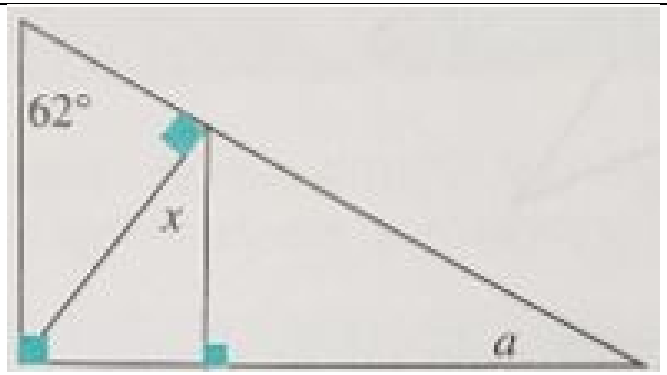 10.- ¿Cuál es el valor del ángulo x	

					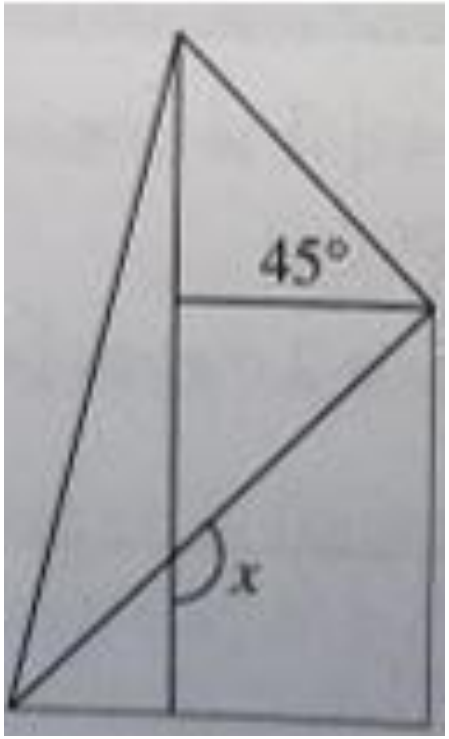	
			27 abril – 01 de mayo	Áreas de polígonos Habilidad matemática Área de un círculo	1.- Se tienen dos cuadrados, el primero con un tercio de longitud por lado que el segundo, ¿Cuántas veces cabe el área del cuadrado pequeño en la del cuadrado grande?	

				Área y Perímetro de figuras regulares Cálculo de volumen de objetos conocidos Congruencia Teorema de Thales Cálculo de ángulos usando teoremas matemáticos	2.-¿Cuál es el área de un círculo con diámetro de 35.4cm? 3.- ¿Qué tiene más área: dos círculos con diámetro de 100 cm o un círculo con diámetro de 200cm? 4.- Un pentágono regular tiene un apotema de 6cm y una longitud de lado de 15cm. Calcula su área y su perímetro 5.- Calcula el volumen de un cilindro que tiene 0.8m de radio y una altura de 4m 6.- Pendiente 7.- Si un hombre de 1.70 m proyecta una sombra de 1.3m, ¿qué altura tendrá un árbol que proyecta una sombra de 3m.	

					8.- De las siguientes opciones, elige la que no representa un criterio de congruencia para triángulos • Los tres lados iguales • Dos lados y el ángulo comprendido entre ellos • Dos ángulos y el lado comprendido entre ellos • Los tres ángulos iguales 9.- Encuentra el valor del ángulo x y el ángulo a 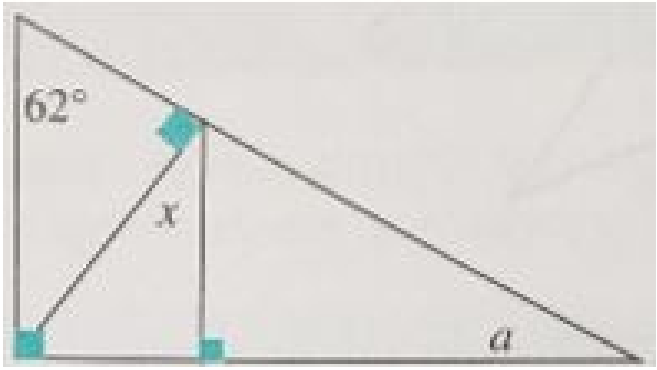 	

					10.- ¿Cuál es el valor del ángulo x 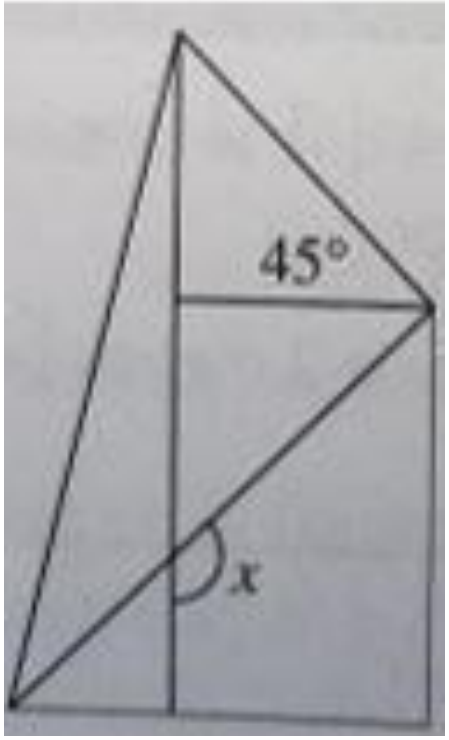	
			04 – 08 mayo	Áreas de polígonos Habilidad matemática Área de un círculo	1.- Se tienen dos cuadrados, el primero con un tercio de longitud por lado que el segundo, ¿Cuántas veces cabe el área del cuadrado	

				Área y Perímetro de figuras regulares Cálculo de volumen de objetos conocidos Congruencia Teorema de Thales Cálculo de ángulos usando teoremas matemáticos	pequeño en la del cuadrado grande? 2.-¿Cuál es el área de un círculo con diámetro de 35.4cm? 3.- ¿Qué tiene más área: dos círculos con diámetro de 100 cm o un círculo con diámetro de 200cm? 4.- Un pentágono regular tiene un apotema de 6cm y una longitud de lado de 15cm. Calcula su área y su perímetro 5.- Calcula el volumen de un cilindro que tiene 0.8m de radio y una altura de 4m 6.- Pendiente 7.- Si un hombre de 1.70 m proyecta una sombra de 1.3m,	

					¿qué altura tendrá un árbol que proyecta una sombra de 3m. 8.- De las siguientes opciones, elige la que no representa un criterio de congruencia para triángulos • Los tres lados iguales • Dos lados y el ángulo comprendido entre ellos • Dos ángulos y el lado comprendido entre ellos • Los tres ángulos iguales 9.- Encuentra el valor del ángulo x y el ángulo a	

					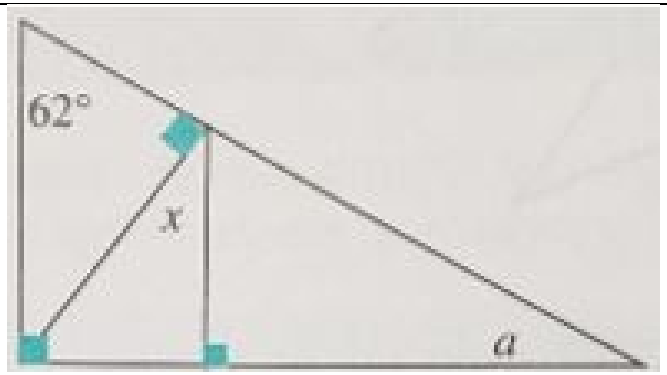 10.- ¿Cuál es el valor del ángulo x	

					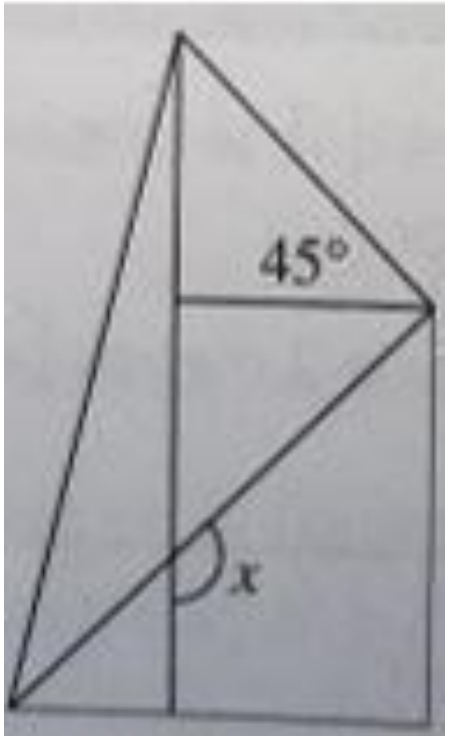 45° x	